Aldus Libris

심화 단계 수학 기출

문제만 · 수능형

10문항 · 미리보기

문제의 문장·수식·그림·선택지는 시행기관의 원문 그대로 담았어요. 문항마다 출처를 확인할 수 있고, 뒤쪽에서 공식 정답과 대조한 답을 볼 수 있어요.

목차와 웹 리더에서 시험·선택과목을 골라 공부해 보세요. 서로 다른 시험의 같은 문항 번호는 출처를 함께 확인해요.

이 책은 문제와 정답에 집중해요. 풀이가 필요하면 같은 문항을 담은 「개념과 풀이」 또는 「문제와 팁」을 이용해 보세요.

난도는 풀이 과정의 복잡도를 기준으로 정한 Aldus 편집 분류예요. 실제 응시자의 정답률이나 통계 난도를 뜻하지 않아요.

출처와 이용 안내

Aldus Libris

수록 기출문제는 각 시행기관의 저작물이며, 사용 허가를 받아 실었어요. 이 책은 Aldus Libris에서 편집했어요. 모든 미리보기와 전체 파일을 무료로 이용할 수 있어요.

이 책은 Aldus Libris의 편집물이에요. 시행기관의 로고를 사용하지 않으며, 해당 기관의 공식 발행이나 후원을 뜻하지 않아요.

수록 시험

2022학년도 대학수학능력시험 수학

한국교육과정평가원 · 2022학년도 대학수학능력시험 수학 공통 12번
홀수형

12. 실수 전체의 집합에서 연속인 함수 $f(x)$가 모든 실수 x에 대하여

$$\{f(x)\}^3-\{f(x)\}^2-x^2f(x)+x^2=0$$

을 만족시킨다. 함수 $f(x)$의 최댓값이 1이고 최솟값이 0일 때, $f\left(-\frac{4}{3}\right)+f(0)+f\left(\frac{1}{2}\right)$의 값은? [4점]

① $\frac{1}{2}$ ② 1 ③ $\frac{3}{2}$ ④ 2 ⑤ $\frac{5}{2}$

한국교육과정평가원 · 2022학년도 대학수학능력시험 수학 공통 14번
홀수형

14. 수직선 위를 움직이는 점 P의 시각 t에서의 위치 $x(t)$가 두 상수 a, b에 대하여

$$x(t)=t(t-1)(at+b)\ \ (a\neq 0)$$

이다. 점 P의 시각 t에서의 속도 $v(t)$가 $\int_0^1|v(t)|\,dt=2$를 만족시킬 때, <보기>에서 옳은 것만을 있는 대로 고른 것은? [4점]

<보 기>

ㄱ. $\int_0^1 v(t)\,dt=0$

ㄴ. $|x(t_1)|>1$인 t_1이 열린구간 $(0,1)$에 존재한다.

ㄷ. $0\le t\le 1$인 모든 t에 대하여 $|x(t)|<1$이면 $x(t_2)=0$인 t_2가 열린구간 $(0,1)$에 존재한다.

① ㄱ ② ㄱ, ㄴ ③ ㄱ, ㄷ
④ ㄴ, ㄷ ⑤ ㄱ, ㄴ, ㄷ

한국교육과정평가원 · 2022학년도 대학수학능력시험 수학 공통 15번
홀수형

15. 두 점 O_1, O_2를 각각 중심으로 하고 반지름의 길이가 $\overline{O_1O_2}$인 두 원 C_1, C_2가 있다. 그림과 같이 원 C_1 위의 서로 다른 세 점 A, B, C와 원 C_2 위의 점 D가 주어져 있고, 세 점 A, O_1, O_2와 세 점 C, O_2, D가 각각 한 직선 위에 있다.
이때 $\angle BO_1A=\theta_1$, $\angle O_2O_1C=\theta_2$, $\angle O_1O_2D=\theta_3$이라 하자.

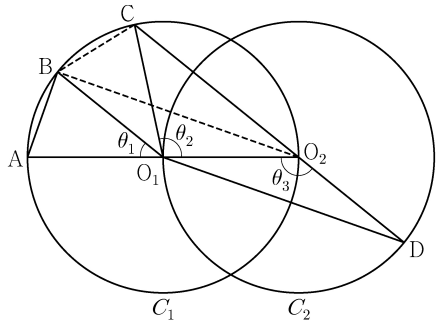

다음은 $\overline{AB}:\overline{O_1D}=1:2\sqrt{2}$이고 $\theta_3=\theta_1+\theta_2$일 때, 선분 AB와 선분 CD의 길이의 비를 구하는 과정이다.

> $\angle CO_2O_1+\angle O_1O_2D=\pi$이므로 $\theta_3=\frac{\pi}{2}+\frac{\theta_2}{2}$이고
> $\theta_3=\theta_1+\theta_2$에서 $2\theta_1+\theta_2=\pi$이므로 $\angle CO_1B=\theta_1$이다.
> 이때 $\angle O_2O_1B=\theta_1+\theta_2=\theta_3$이므로 삼각형 O_1O_2B와 삼각형 O_2O_1D는 합동이다.
> $\overline{AB}=k$라 할 때
> $\overline{BO_2}=\overline{O_1D}=2\sqrt{2}k$이므로 $\overline{AO_2}=\boxed{(가)}$이고,
> $\angle BO_2A=\frac{\theta_1}{2}$이므로 $\cos\frac{\theta_1}{2}=\boxed{(나)}$이다.
> 삼각형 O_2BC에서
> $\overline{BC}=k$, $\overline{BO_2}=2\sqrt{2}k$, $\angle CO_2B=\frac{\theta_1}{2}$이므로
> 코사인법칙에 의하여 $\overline{O_2C}=\boxed{(다)}$이다.
> $\overline{CD}=\overline{O_2D}+\overline{O_2C}=\overline{O_1O_2}+\overline{O_2C}$이므로
> $\overline{AB}:\overline{CD}=k:\left(\frac{\boxed{(가)}}{2}+\boxed{(다)}\right)$이다.

위의 (가), (다)에 알맞은 식을 각각 $f(k)$, $g(k)$라 하고, (나)에 알맞은 수를 p라 할 때, $f(p)\times g(p)$의 값은? [4점]

① $\frac{169}{27}$ ② $\frac{56}{9}$ ③ $\frac{167}{27}$ ④ $\frac{166}{27}$ ⑤ $\frac{55}{9}$

한국교육과정평가원 · 2022학년도 대학수학능력시험 수학 공통 21번 홀수형

21. 수열 $\{a_n\}$이 다음 조건을 만족시킨다.

> (가) $|a_1| = 2$
>
> (나) 모든 자연수 n에 대하여 $|a_{n+1}| = 2|a_n|$이다.
>
> (다) $\sum_{n=1}^{10} a_n = -14$

$a_1 + a_3 + a_5 + a_7 + a_9$의 값을 구하시오. [4점]

한국교육과정평가원 · 2022학년도 대학수학능력시험 수학 공통 22번 홀수형

22. 최고차항의 계수가 $\frac{1}{2}$인 삼차함수 $f(x)$와 실수 t에 대하여 방정식 $f'(x) = 0$이 닫힌구간 $[t, t+2]$에서 갖는 실근의 개수를 $g(t)$라 할 때, 함수 $g(t)$는 다음 조건을 만족시킨다.

> (가) 모든 실수 a에 대하여 $\lim_{t \to a+} g(t) + \lim_{t \to a-} g(t) \le 2$이다.
>
> (나) $g(f(1)) = g(f(4)) = 2$, $g(f(0)) = 1$

$f(5)$의 값을 구하시오. [4점]

한국교육과정평가원 · 2022학년도 대학수학능력시험 수학 확률과 통계 28번 홀수형

28. 두 집합 $X = \{1, 2, 3, 4, 5\}$, $Y = \{1, 2, 3, 4\}$에 대하여 다음 조건을 만족시키는 X에서 Y로의 함수 f의 개수는? [4점]

> (가) 집합 X의 모든 원소 x에 대하여 $f(x) \ge \sqrt{x}$이다.
>
> (나) 함수 f의 치역의 원소의 개수는 3이다.

① 128 ② 138 ③ 148 ④ 158 ⑤ 168

한국교육과정평가원 · 2022학년도 대학수학능력시험 수학 확률과 통계 30번 홀수형

30. 흰 공과 검은 공이 각각 10개 이상 들어 있는 바구니와 비어 있는 주머니가 있다. 한 개의 주사위를 사용하여 다음 시행을 한다.

> 주사위를 한 번 던져
> 나온 눈의 수가 5 이상이면
> 바구니에 있는 흰 공 2개를 주머니에 넣고,
> 나온 눈의 수가 4 이하이면
> 바구니에 있는 검은 공 1개를 주머니에 넣는다.

위의 시행을 5번 반복할 때, $n(1 \le n \le 5)$번째 시행 후 주머니에 들어 있는 흰 공과 검은 공의 개수를 각각 a_n, b_n이라 하자. $a_5 + b_5 \ge 7$일 때, $a_k = b_k$인 자연수 $k(1 \le k \le 5)$가 존재할 확률은 $\frac{q}{p}$이다. $p+q$의 값을 구하시오.
(단, p와 q는 서로소인 자연수이다.) [4점]

한국교육과정평가원 · 2022학년도 대학수학능력시험 수학 미적분 29번 홀수형

29. 그림과 같이 길이가 2인 선분 AB를 지름으로 하는 반원이 있다. 호 AB 위에 두 점 P, Q를 $\angle PAB = \theta$, $\angle QBA = 2\theta$가 되도록 잡고, 두 선분 AP, BQ의 교점을 R라 하자.
선분 AB 위의 점 S, 선분 BR 위의 점 T, 선분 AR 위의 점 U를 선분 UT가 선분 AB에 평행하고 삼각형 STU가 정삼각형이 되도록 잡는다. 두 선분 AR, QR와 호 AQ로 둘러싸인 부분의 넓이를 $f(\theta)$, 삼각형 STU의 넓이를 $g(\theta)$라 할 때,
$\lim_{\theta \to 0+} \frac{g(\theta)}{\theta \times f(\theta)} = \frac{q}{p}\sqrt{3}$이다. $p+q$의 값을 구하시오.
(단, $0 < \theta < \frac{\pi}{6}$이고, p와 q는 서로소인 자연수이다.) [4점]

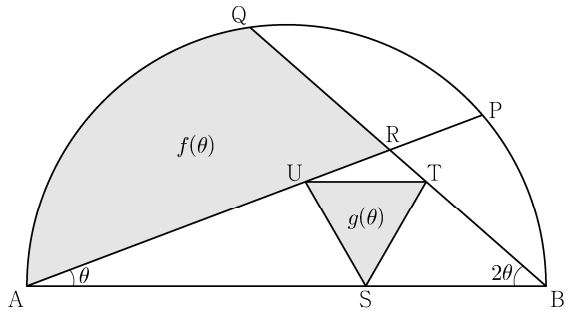

한국교육과정평가원 · 2022학년도 대학수학능력시험 수학 미적분 30번
홀수형

30. 실수 전체의 집합에서 증가하고 미분가능한 함수 $f(x)$가 다음 조건을 만족시킨다.

(가) $f(1)=1$, $\int_1^2 f(x)\,dx=\frac{5}{4}$
(나) 함수 $f(x)$의 역함수를 $g(x)$라 할 때, $x \geq 1$인 모든 실수 x에 대하여 $g(2x)=2f(x)$이다.

$\int_1^8 xf'(x)\,dx=\frac{q}{p}$일 때, $p+q$의 값을 구하시오.
(단, p와 q는 서로소인 자연수이다.) [4점]

한국교육과정평가원 · 2022학년도 대학수학능력시험 수학 기하 29번
홀수형

29. 좌표평면에서 $\overline{\mathrm{OA}}=\sqrt{2}$, $\overline{\mathrm{OB}}=2\sqrt{2}$이고 $\cos(\angle \mathrm{AOB})=\frac{1}{4}$인 평행사변형 OACB에 대하여 점 P가 다음 조건을 만족시킨다.

(가) $\overrightarrow{\mathrm{OP}}=s\overrightarrow{\mathrm{OA}}+t\overrightarrow{\mathrm{OB}}$ $(0 \leq s \leq 1,\ 0 \leq t \leq 1)$
(나) $\overrightarrow{\mathrm{OP}} \cdot \overrightarrow{\mathrm{OB}}+\overrightarrow{\mathrm{BP}} \cdot \overrightarrow{\mathrm{BC}}=2$

점 O를 중심으로 하고 점 A를 지나는 원 위를 움직이는 점 X에 대하여 $|3\overrightarrow{\mathrm{OP}}-\overrightarrow{\mathrm{OX}}|$의 최댓값과 최솟값을 각각 M, m이라 하자. $M \times m=a\sqrt{6}+b$일 때, a^2+b^2의 값을 구하시오.
(단, a와 b는 유리수이다.) [4점]

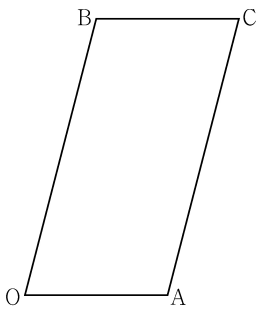

정답을 확인해요

2022학년도 대학수학능력시험 수학

공통 · 12번 ③ 14번 ③ 15번 ② 21번 678 22번 9

확률과 통계 · 28번 ① 30번 191

미적분 · 29번 11 30번 143

기하 · 29번 100