Aldus Libris

연결 단계 수학 기출

문제만 · 교재형

10문항 · 미리보기

문제의 문장·수식·그림·선택지는 시행기관의 원문 그대로 담았어요. 문항마다 출처를 확인할 수 있고, 뒤쪽에서 공식 정답과 대조한 답을 볼 수 있어요.

목차와 웹 리더에서 시험·선택과목을 골라 공부해 보세요. 서로 다른 시험의 같은 문항 번호는 출처를 함께 확인해요.

이 책은 문제와 정답에 집중해요. 풀이가 필요하면 같은 문항을 담은 「개념과 풀이」 또는 「문제와 팁」을 이용해 보세요.

난도는 풀이 과정의 복잡도를 기준으로 정한 Aldus 편집 분류예요. 실제 응시자의 정답률이나 통계 난도를 뜻하지 않아요.

출처와 이용 안내

Aldus Libris

수록 기출문제는 각 시행기관의 저작물이며, 사용 허가를 받아 실었어요. 이 책은 Aldus Libris에서 편집했어요. 모든 미리보기와 전체 파일을 무료로 이용할 수 있어요.

이 책은 Aldus Libris의 편집물이에요. 시행기관의 로고를 사용하지 않으며, 해당 기관의 공식 발행이나 후원을 뜻하지 않아요.

수록 시험

2022학년도 대학수학능력시험 수학

한국교육과정평가원 · 2022학년도 대학수학능력시험 수학 공통 6번 홀수형

6. 방정식 $2x^3-3x^2-12x+k=0$이 서로 다른 세 실근을 갖도록 하는 정수 k의 개수는? [3점]

① 20 ② 23 ③ 26 ④ 29 ⑤ 32

한국교육과정평가원 · 2022학년도 대학수학능력시험 수학 공통 9번 홀수형

9. 직선 $y=2x+k$가 두 함수

$$y=\left(\frac{2}{3}\right)^{x+3}+1,\quad y=\left(\frac{2}{3}\right)^{x+1}+\frac{8}{3}$$

의 그래프와 만나는 점을 각각 P, Q라 하자. $\overline{\mathrm{PQ}}=\sqrt{5}$일 때, 상수 k의 값은? [4점]

① $\frac{31}{6}$ ② $\frac{16}{3}$ ③ $\frac{11}{2}$ ④ $\frac{17}{3}$ ⑤ $\frac{35}{6}$

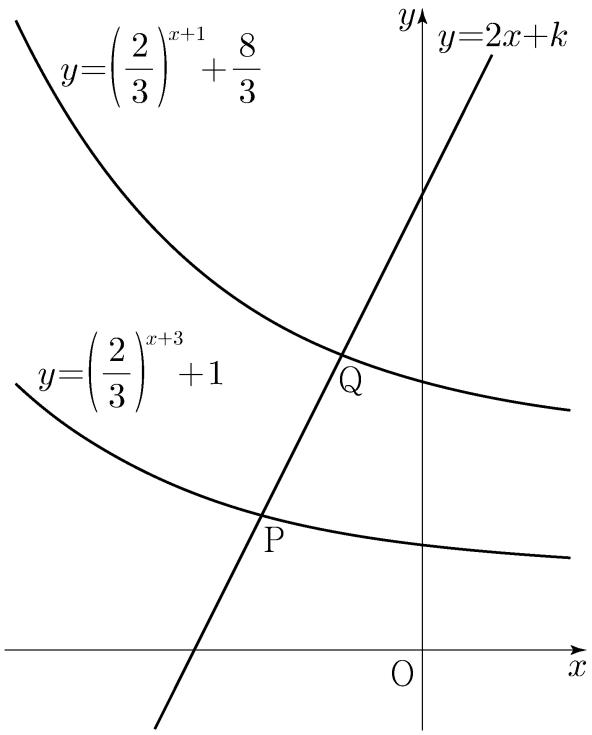

한국교육과정평가원 · 2022학년도 대학수학능력시험 수학 공통 10번 홀수형

10. 삼차함수 $f(x)$에 대하여 곡선 $y=f(x)$ 위의 점 $(0, 0)$에서의 접선과 곡선 $y=xf(x)$ 위의 점 $(1, 2)$에서의 접선이 일치할 때, $f'(2)$의 값은? [4점]

① -18 ② -17 ③ -16 ④ -15 ⑤ -14

한국교육과정평가원 · 2022학년도 대학수학능력시험 수학 공통 11번 홀수형

11. 양수 a에 대하여 집합 $\left\{x \,\middle|\, -\frac{a}{2} < x \le a,\ x \ne \frac{a}{2}\right\}$에서 정의된 함수

$$f(x) = \tan\frac{\pi x}{a}$$

가 있다. 그림과 같이 함수 $y=f(x)$의 그래프 위의 세 점 O, A, B를 지나는 직선이 있다. 점 A를 지나고 x축에 평행한 직선이 함수 $y=f(x)$의 그래프와 만나는 점 중 A가 아닌 점을 C라 하자. 삼각형 ABC가 정삼각형일 때, 삼각형 ABC의 넓이는? (단, O는 원점이다.) [4점]

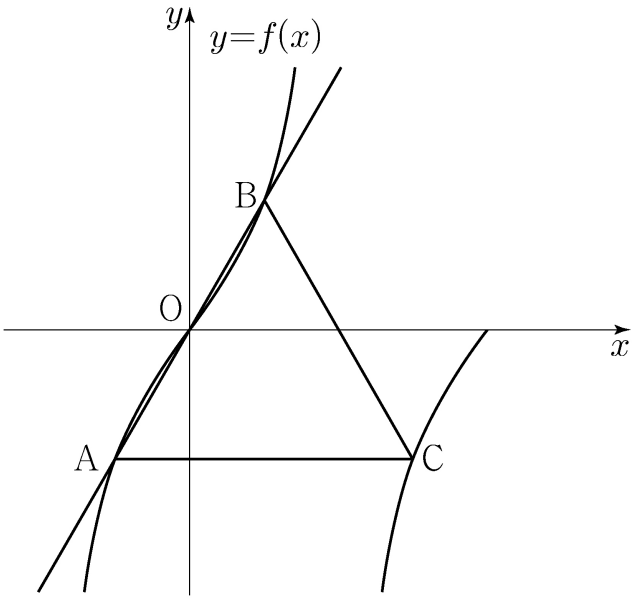

① $\frac{3\sqrt{3}}{2}$ ② $\frac{17\sqrt{3}}{12}$ ③ $\frac{4\sqrt{3}}{3}$

④ $\frac{5\sqrt{3}}{4}$ ⑤ $\frac{7\sqrt{3}}{6}$

한국교육과정평가원 · 2022학년도 대학수학능력시험 수학 공통 13번 홀수형

13. 두 상수 a, $b\,(1<a<b)$에 대하여 좌표평면 위의 두 점 $(a, \log_2 a)$, $(b, \log_2 b)$를 지나는 직선의 y절편과 두 점 $(a, \log_4 a)$, $(b, \log_4 b)$를 지나는 직선의 y절편이 같다. 함수 $f(x)=a^{bx}+b^{ax}$에 대하여 $f(1)=40$일 때, $f(2)$의 값은? [4점]

① 760 ② 800 ③ 840 ④ 880 ⑤ 920

한국교육과정평가원 · 2022학년도 대학수학능력시험 수학 공통 19번 홀수형

19. 함수 $f(x)=x^3+ax^2-(a^2-8a)x+3$이 실수 전체의 집합에서 증가하도록 하는 실수 a의 최댓값을 구하시오. [3점]

한국교육과정평가원 · 2022학년도 대학수학능력시험 수학 공통 20번 홀수형

20. 실수 전체의 집합에서 미분가능한 함수 $f(x)$가 다음 조건을 만족시킨다.

(가) 닫힌구간 $[0, 1]$에서 $f(x)=x$이다.
(나) 어떤 상수 a, b에 대하여 구간 $[0, \infty)$에서 $f(x+1)-xf(x)=ax+b$이다.

$60\times\int_1^2 f(x)\,dx$의 값을 구하시오. [4점]

한국교육과정평가원 · 2022학년도 대학수학능력시험 수학 확률과 통계 25번 홀수형

25. 다음 조건을 만족시키는 자연수 a, b, c, d, e의 모든 순서쌍 (a, b, c, d, e)의 개수는? [3점]

(가) $a+b+c+d+e=12$
(나) $\lvert a^2-b^2 \rvert=5$

① 30 ② 32 ③ 34 ④ 36 ⑤ 38

한국교육과정평가원 · 2022학년도 대학수학능력시험 수학 확률과 통계 26번 홀수형

26. 1부터 10까지 자연수가 하나씩 적혀 있는 10장의 카드가 들어 있는 주머니가 있다. 이 주머니에서 임의로 카드 3장을 동시에 꺼낼 때, 꺼낸 카드에 적혀 있는 세 자연수 중에서 가장 작은 수가 4 이하이거나 7 이상일 확률은? [3점]

① $\frac{4}{5}$ ② $\frac{5}{6}$ ③ $\frac{13}{15}$ ④ $\frac{9}{10}$ ⑤ $\frac{14}{15}$



한국교육과정평가원 · 2022학년도 대학수학능력시험 수학 확률과 통계 27번 홀수형

27. 어느 자동차 회사에서 생산하는 전기 자동차의 1회 충전 주행 거리는 평균이 m이고 표준편차가 σ인 정규분포를 따른다고 한다.

이 자동차 회사에서 생산한 전기 자동차 100대를 임의추출하여 얻은 1회 충전 주행 거리의 표본평균이 $\overline{x_1}$일 때, 모평균 m에 대한 신뢰도 95%의 신뢰구간이 $a \le m \le b$이다.

이 자동차 회사에서 생산한 전기 자동차 400대를 임의추출하여 얻은 1회 충전 주행 거리의 표본평균이 $\overline{x_2}$일 때, 모평균 m에 대한 신뢰도 99%의 신뢰구간이 $c \le m \le d$이다.

$\overline{x_1} - \overline{x_2} = 1.34$이고 $a = c$일 때, $b - a$의 값은? (단, 주행 거리의 단위는 km이고, Z가 표준정규분포를 따르는 확률변수일 때 $\mathrm{P}(|Z| \le 1.96) = 0.95$, $\mathrm{P}(|Z| \le 2.58) = 0.99$로 계산한다.) [3점]

① 5.88 ② 7.84 ③ 9.80
④ 11.76 ⑤ 13.72

정답을 확인해요

2022학년도 대학수학능력시험 수학

공통 · 6번 ③ 9번 ④ 10번 ⑤ 11번 ③ 13번 ② 19번 6

공통 · 20번 110

확률과 통계 · 25번 ① 26번 ③ 27번 ②