Aldus Libris

삼각함수의 극한 기출 모음

문제만 · 수능형

10문항 · 미리보기

문제의 문장·수식·그림·선택지는 시행기관의 원문 그대로 담았어요. 문항마다 출처를 확인할 수 있고, 뒤쪽에서 공식 정답과 대조한 답을 볼 수 있어요.

목차와 웹 리더에서 시험·선택과목을 골라 공부해 보세요. 서로 다른 시험의 같은 문항 번호는 출처를 함께 확인해요.

이 책은 문제와 정답에 집중해요. 풀이가 필요하면 같은 문항을 담은 「개념과 풀이」 또는 「문제와 팁」을 이용해 보세요.

출처와 이용 안내

Aldus Libris

수록 기출문제는 각 시행기관의 저작물이며, 사용 허가를 받아 실었어요. 이 책은 Aldus Libris에서 편집했어요. 모든 미리보기와 전체 파일을 무료로 이용할 수 있어요.

이 책은 Aldus Libris의 편집물이에요. 시행기관의 로고를 사용하지 않으며, 해당 기관의 공식 발행이나 후원을 뜻하지 않아요.

수록 시험

2022학년도 대학수학능력시험 수학

2022학년도 6월 모의평가 수학

2023학년도 대학수학능력시험 수학

2023학년도 6월 모의평가 수학

2023학년도 9월 모의평가 수학

2024학년도 6월 모의평가 수학

2025학년도 대학수학능력시험 수학

2025학년도 6월 모의평가 수학

2025학년도 9월 모의평가 수학

2026학년도 대학수학능력시험 수학

한국교육과정평가원 · 2022학년도 대학수학능력시험 수학 미적분 29번
홀수형

29. 그림과 같이 길이가 2인 선분 AB를 지름으로 하는 반원이 있다. 호 AB 위에 두 점 P, Q를 $\angle PAB = \theta$, $\angle QBA = 2\theta$가 되도록 잡고, 두 선분 AP, BQ의 교점을 R라 하자.
선분 AB 위의 점 S, 선분 BR 위의 점 T, 선분 AR 위의 점 U를 선분 UT가 선분 AB에 평행하고 삼각형 STU가 정삼각형이 되도록 잡는다. 두 선분 AR, QR와 호 AQ로 둘러싸인 부분의 넓이를 $f(\theta)$, 삼각형 STU의 넓이를 $g(\theta)$라 할 때,
$\lim_{\theta \to 0+} \frac{g(\theta)}{\theta \times f(\theta)} = \frac{q}{p}\sqrt{3}$ 이다. $p+q$의 값을 구하시오.
(단, $0 < \theta < \frac{\pi}{6}$이고, p와 q는 서로소인 자연수이다.) [4점]

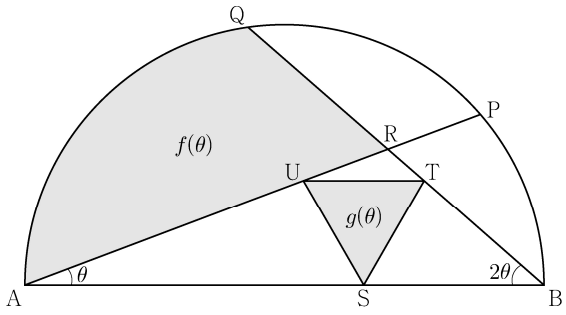

한국교육과정평가원 · 2022학년도 6월 모의평가 수학 미적분 28번

28. 그림과 같이 길이가 2인 선분 AB를 지름으로 하는 반원의 호 AB 위에 점 P가 있다. 선분 AB의 중점을 O라 할 때, 점 B를 지나고 선분 AB에 수직인 직선이 직선 OP와 만나는 점을 Q라 하고, $\angle OQB$의 이등분선이 직선 AP와 만나는 점을 R라 하자. $\angle OAP = \theta$일 때, 삼각형 OAP의 넓이를 $f(\theta)$, 삼각형 PQR의 넓이를 $g(\theta)$라 하자.
$\lim_{\theta \to 0+} \frac{g(\theta)}{\theta^4 \times f(\theta)}$ 의 값은? (단, $0 < \theta < \frac{\pi}{4}$) [4점]

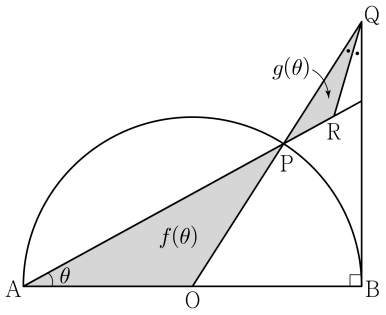

① 2 ② $\frac{5}{2}$ ③ 3 ④ $\frac{7}{2}$ ⑤ 4

한국교육과정평가원 · 2023학년도 대학수학능력시험 수학 미적분 28번
홀수형

28. 그림과 같이 중심이 O이고 길이가 2인 선분 AB를 지름으로 하는 반원 위에 $\angle AOC = \frac{\pi}{2}$인 점 C가 있다. 호 BC 위에 점 P와 호 CA 위에 점 Q를 $\overline{PB} = \overline{QC}$가 되도록 잡고, 선분 AP 위에 점 R를 $\angle CQR = \frac{\pi}{2}$가 되도록 잡는다. 선분 AP와 선분 CO의 교점을 S라 하자. $\angle PAB = \theta$일 때, 삼각형 POB의 넓이를 $f(\theta)$, 사각형 CQRS의 넓이를 $g(\theta)$라 하자. $\lim_{\theta \to 0+} \frac{3f(\theta) - 2g(\theta)}{\theta^2}$의 값은? (단, $0 < \theta < \frac{\pi}{4}$) [4점]

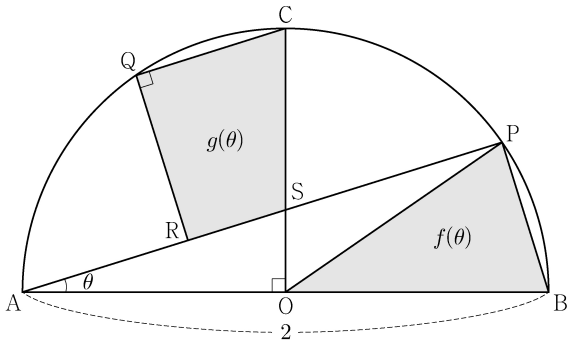

① 1 ② 2 ③ 3 ④ 4 ⑤ 5

한국교육과정평가원 · 2023학년도 6월 모의평가 수학 미적분 29번

29. 그림과 같이 반지름의 길이가 1이고 중심각의 크기가 $\frac{\pi}{2}$인 부채꼴 OAB가 있다. 호 AB 위의 점 P에서 선분 OA에 내린 수선의 발을 H라 하고, $\angle$OAP를 이등분하는 직선과 세 선분 HP, OP, OB의 교점을 각각 Q, R, S라 하자. $\angle \mathrm{APH} = \theta$일 때, 삼각형 AQH의 넓이를 $f(\theta)$, 삼각형 PSR의 넓이를 $g(\theta)$라 하자. $\lim_{\theta \to 0+} \frac{\theta^3 \times g(\theta)}{f(\theta)} = k$일 때, $100k$의 값을 구하시오. (단, $0 < \theta < \frac{\pi}{4}$) [4점]

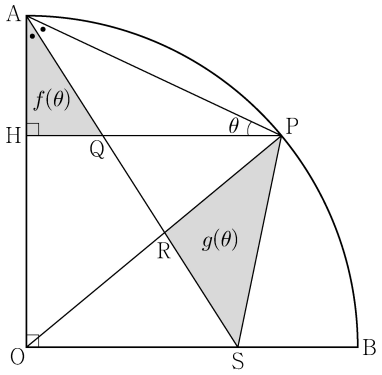

한국교육과정평가원 · 2023학년도 9월 모의평가 수학 미적분 28번

28. 그림과 같이 반지름의 길이가 1이고 중심각의 크기가 $\frac{\pi}{2}$인 부채꼴 OAB가 있다. 호 AB 위의 점 P에 대하여 $\overline{PA}=\overline{PC}=\overline{PD}$가 되도록 호 PB 위에 점 C와 선분 OA 위에 점 D를 잡는다. 점 D를 지나고 선분 OP와 평행한 직선이 선분 PA와 만나는 점을 E라 하자. $\angle POA=\theta$일 때, 삼각형 CDP의 넓이를 $f(\theta)$, 삼각형 EDA의 넓이를 $g(\theta)$라 하자. $\lim_{\theta\to0+}\frac{g(\theta)}{\theta^2\times f(\theta)}$의 값은? (단, $0<\theta<\frac{\pi}{4}$) [4점]

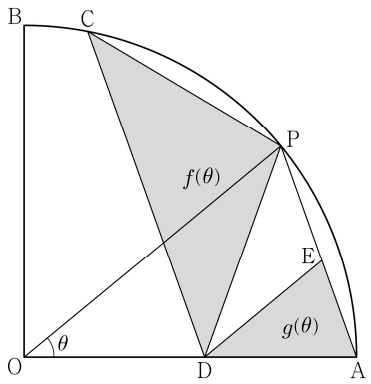

① $\frac{1}{8}$ ② $\frac{1}{4}$ ③ $\frac{3}{8}$ ④ $\frac{1}{2}$ ⑤ $\frac{5}{8}$

한국교육과정평가원 · 2024학년도 6월 모의평가 수학 미적분 27번

27. 실수 $t\,(0<t<\pi)$에 대하여 곡선 $y=\sin x$ 위의 점 $\mathrm{P}(t,\ \sin t)$에서의 접선과 점 P를 지나고 기울기가 -1인 직선이 이루는 예각의 크기를 θ라 할 때, $\lim_{t\to\pi-}\frac{\tan\theta}{(\pi-t)^2}$의 값은? [3점]

① $\frac{1}{16}$ ② $\frac{1}{8}$ ③ $\frac{1}{4}$ ④ $\frac{1}{2}$ ⑤ 1

한국교육과정평가원 · 2025학년도 대학수학능력시험 수학 미적분 23번
홀수형

23. $\lim_{x\to0}\frac{3x^2}{\sin^2 x}$의 값은? [2점]

① 1 ② 2 ③ 3 ④ 4 ⑤ 5

한국교육과정평가원 · 2025학년도 6월 모의평가 수학 미적분 30번

30. 함수 $y=\frac{\sqrt{x}}{10}$의 그래프와 함수 $y=\tan x$의 그래프가 만나는 모든 점의 x좌표를 작은 수부터 크기순으로 나열할 때, n번째 수를 a_n이라 하자.

$$\frac{1}{\pi^2}\times\lim_{n\to\infty}a_n^3\tan^2(a_{n+1}-a_n)$$

의 값을 구하시오. [4점]

한국교육과정평가원 · 2025학년도 9월 모의평가 수학 미적분 23번

23. $\lim_{x\to 0}\frac{\sin 5x}{x}$의 값은? [2점]

① 1 ② 2 ③ 3 ④ 4 ⑤ 5

한국교육과정평가원 · 2026학년도 대학수학능력시험 수학 미적분 23번
홀수형

23. $\lim_{x\to 0}\frac{\tan 6x}{2x}$의 값은? [2점]

① 1 ② 2 ③ 3 ④ 4 ⑤ 5

정답을 확인해요

2022학년도 대학수학능력시험 수학

미적분 · 29번 11

2022학년도 6월 모의평가 수학

미적분 · 28번 ①

2023학년도 대학수학능력시험 수학

미적분 · 28번 ②

2023학년도 6월 모의평가 수학

미적분 · 29번 50

2023학년도 9월 모의평가 수학

미적분 · 28번 ④

2024학년도 6월 모의평가 수학

미적분 · 27번 ③

2025학년도 대학수학능력시험 수학

미적분 · 23번 ③

2025학년도 6월 모의평가 수학

미적분 · 30번 25

2025학년도 9월 모의평가 수학

미적분 · 23번 ⑤

2026학년도 대학수학능력시험 수학

미적분 · 23번 ③