Aldus Libris

2025학년도 대학수학능력시험 수학

문제만 · 수능형

46문항

문제의 문장·수식·그림·선택지는 시행기관의 원문 그대로 담았어요. 문항마다 출처를 확인할 수 있고, 뒤쪽에서 공식 정답과 대조한 답을 볼 수 있어요.

공통 1-22번을 풀고, 확률과 통계·미적분·기하 중 한 과목의 23-30번을 선택해요. 한 과목을 선택하면 30문항, 100점, 100분이에요. 홀수형이 있는 시험은 홀수형을 수록했어요.

이 책은 문제와 정답에 집중해요. 풀이가 필요하면 같은 문항을 담은 「개념과 풀이」 또는 「문제와 팁」을 이용해 보세요.

출처와 이용 안내

Aldus Libris

수록 기출문제는 각 시행기관의 저작물이며, 사용 허가를 받아 실었어요. 이 책은 Aldus Libris에서 편집했어요. 모든 미리보기와 전체 파일을 무료로 이용할 수 있어요.

이 책은 Aldus Libris의 편집물이에요. 시행기관의 로고를 사용하지 않으며, 해당 기관의 공식 발행이나 후원을 뜻하지 않아요.

수록 시험

2025학년도 대학수학능력시험 수학

한국교육과정평가원 · 2025학년도 대학수학능력시험 수학 공통 1번 홀수형

1. $\sqrt[3]{5} \times 25^{\frac{1}{3}}$ 의 값은? [2점]

① 1 ② 2 ③ 3 ④ 4 ⑤ 5

한국교육과정평가원 · 2025학년도 대학수학능력시험 수학 공통 2번 홀수형

2. 함수 $f(x) = x^3 - 8x + 7$ 에 대하여 $\lim_{h \to 0} \frac{f(2+h) - f(2)}{h}$ 의 값은? [2점]

① 1 ② 2 ③ 3 ④ 4 ⑤ 5

한국교육과정평가원 · 2025학년도 대학수학능력시험 수학 공통 3번 홀수형

3. 첫째항과 공비가 모두 양수 k 인 등비수열 $\{a_n\}$ 이

$$\frac{a_4}{a_2} + \frac{a_2}{a_1} = 30$$

을 만족시킬 때, k 의 값은? [3점]

① 1 ② 2 ③ 3 ④ 4 ⑤ 5

한국교육과정평가원 · 2025학년도 대학수학능력시험 수학 공통 4번 홀수형

4. 함수

$$f(x) = \begin{cases} 5x + a & (x < -2) \\ x^2 - a & (x \geq -2) \end{cases}$$

가 실수 전체의 집합에서 연속일 때, 상수 a 의 값은? [3점]

① 6 ② 7 ③ 8 ④ 9 ⑤ 10

한국교육과정평가원 · 2025학년도 대학수학능력시험 수학 공통 5번 홀수형

5. 함수 $f(x) = (x^2+1)(3x^2 - x)$ 에 대하여 $f'(1)$ 의 값은? [3점]

① 8 ② 10 ③ 12 ④ 14 ⑤ 16

한국교육과정평가원 · 2025학년도 대학수학능력시험 수학 공통 6번 홀수형

6. $\cos\left(\frac{\pi}{2} + \theta\right) = -\frac{1}{5}$ 일 때, $\frac{\sin\theta}{1 - \cos^2\theta}$ 의 값은? [3점]

① -5 ② $-\sqrt{5}$ ③ 0 ④ $\sqrt{5}$ ⑤ 5

한국교육과정평가원 · 2025학년도 대학수학능력시험 수학 공통 7번 홀수형

7. 다항함수 $f(x)$ 가 모든 실수 x 에 대하여

$$\int_0^x f(t)\,dt = 3x^3 + 2x$$

를 만족시킬 때, $f(1)$ 의 값은? [3점]

① 7 ② 9 ③ 11 ④ 13 ⑤ 15

한국교육과정평가원 · 2025학년도 대학수학능력시험 수학 공통 8번 홀수형

8. 두 실수 $a = 2\log\frac{1}{\sqrt{10}} + \log_2 20$, $b = \log 2$ 에 대하여 $a \times b$ 의 값은? [3점]

① 1 ② 2 ③ 3 ④ 4 ⑤ 5

한국교육과정평가원 · 2025학년도 대학수학능력시험 수학 공통 9번 홀수형

9. 함수 $f(x) = 3x^2 - 16x - 20$ 에 대하여

$$\int_{-2}^{a} f(x)\,dx = \int_{-2}^{0} f(x)\,dx$$

일 때, 양수 a 의 값은? [4점]

① 16 ② 14 ③ 12 ④ 10 ⑤ 8

한국교육과정평가원 · 2025학년도 대학수학능력시험 수학 공통 10번
홀수형

10. 닫힌구간 $[0, 2\pi]$에서 정의된 함수 $f(x) = a\cos bx + 3$이 $x = \frac{\pi}{3}$에서 최댓값 13을 갖도록 하는 두 자연수 a, b의 순서쌍 (a, b)에 대하여 $a+b$의 최솟값은? [4점]

① 12 ② 14 ③ 16 ④ 18 ⑤ 20

한국교육과정평가원 · 2025학년도 대학수학능력시험 수학 공통 11번
홀수형

11. 시각 $t=0$일 때 출발하여 수직선 위를 움직이는 점 P의 시각 $t\,(t \geq 0)$에서의 위치 x가

$$x = t^3 - \frac{3}{2}t^2 - 6t$$

이다. 출발한 후 점 P의 운동 방향이 바뀌는 시각에서의 점 P의 가속도는? [4점]

① 6 ② 9 ③ 12 ④ 15 ⑤ 18

한국교육과정평가원 · 2025학년도 대학수학능력시험 수학 공통 12번
홀수형

12. $a_1 = 2$인 수열 $\{a_n\}$과 $b_1 = 2$인 등차수열 $\{b_n\}$이 모든 자연수 n에 대하여

$$\sum_{k=1}^{n} \frac{a_k}{b_{k+1}} = \frac{1}{2}n^2$$

을 만족시킬 때, $\sum_{k=1}^{5} a_k$의 값은? [4점]

① 120 ② 125 ③ 130 ④ 135 ⑤ 140

한국교육과정평가원 · 2025학년도 대학수학능력시험 수학 공통 13번
홀수형

13. 최고차항의 계수가 1인 삼차함수 $f(x)$가

$$f(1) = f(2) = 0, \quad f'(0) = -7$$

을 만족시킨다. 원점 O와 점 $\mathrm{P}(3, f(3))$에 대하여 선분 OP가 곡선 $y=f(x)$와 만나는 점 중 P가 아닌 점을 Q라 하자. 곡선 $y=f(x)$와 y축 및 선분 OQ로 둘러싸인 부분의 넓이를 A, 곡선 $y=f(x)$와 선분 PQ로 둘러싸인 부분의 넓이를 B라 할 때, $B-A$의 값은? [4점]

① $\frac{37}{4}$ ② $\frac{39}{4}$ ③ $\frac{41}{4}$ ④ $\frac{43}{4}$ ⑤ $\frac{45}{4}$

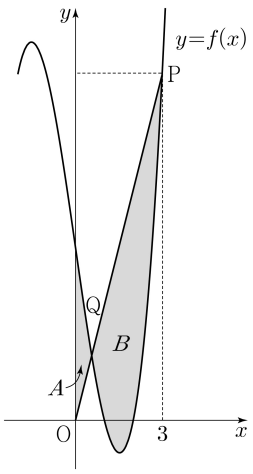

한국교육과정평가원 · 2025학년도 대학수학능력시험 수학 공통 14번
홀수형

14. 그림과 같이 삼각형 ABC에서 선분 AB 위에 $\overline{\mathrm{AD}} : \overline{\mathrm{DB}} = 3 : 2$인 점 D를 잡고, 점 A를 중심으로 하고 점 D를 지나는 원을 O, 원 O와 선분 AC가 만나는 점을 E라 하자.
$\sin A : \sin C = 8 : 5$이고, 삼각형 ADE와 삼각형 ABC의 넓이의 비가 $9 : 35$이다. 삼각형 ABC의 외접원의 반지름의 길이가 7일 때, 원 O 위의 점 P에 대하여 삼각형 PBC의 넓이의 최댓값은? (단, $\overline{\mathrm{AB}} < \overline{\mathrm{AC}}$) [4점]

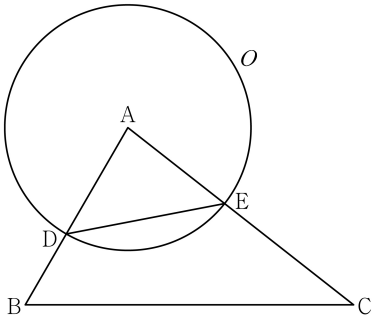

① $18 + 15\sqrt{3}$ ② $24 + 20\sqrt{3}$ ③ $30 + 25\sqrt{3}$
④ $36 + 30\sqrt{3}$ ⑤ $42 + 35\sqrt{3}$

한국교육과정평가원 · 2025학년도 대학수학능력시험 수학 공통 15번
홀수형

15. 상수 $a\,(a \neq 3\sqrt{5})$와 최고차항의 계수가 음수인 이차함수 $f(x)$에 대하여 함수

$$g(x) = \begin{cases} x^3 + ax^2 + 15x + 7 & (x \leq 0) \\ f(x) & (x > 0) \end{cases}$$

이 다음 조건을 만족시킨다.

(가) 함수 $g(x)$는 실수 전체의 집합에서 미분가능하다.
(나) x에 대한 방정식 $g'(x) \times g'(x-4) = 0$의 서로 다른 실근의 개수는 4이다.

$g(-2) + g(2)$의 값은? [4점]

① 30 ② 32 ③ 34 ④ 36 ⑤ 38

한국교육과정평가원 · 2025학년도 대학수학능력시험 수학 공통 16번
홀수형

16. 방정식

$$\log_2(x-3) = \log_4(3x-5)$$

를 만족시키는 실수 x의 값을 구하시오. [3점]

한국교육과정평가원 · 2025학년도 대학수학능력시험 수학 공통 17번
홀수형

17. 다항함수 $f(x)$에 대하여 $f'(x) = 9x^2 + 4x$이고 $f(1) = 6$일 때, $f(2)$의 값을 구하시오. [3점]

한국교육과정평가원 · 2025학년도 대학수학능력시험 수학 공통 18번
홀수형

18. 수열 $\{a_n\}$이 모든 자연수 n에 대하여

$$a_n + a_{n+4} = 12$$

를 만족시킬 때, $\sum_{n=1}^{16} a_n$의 값을 구하시오. [3점]

한국교육과정평가원 · 2025학년도 대학수학능력시험 수학 공통 19번
홀수형

19. 양수 a에 대하여 함수 $f(x)$를

$$f(x) = 2x^3 - 3ax^2 - 12a^2x$$

라 하자. 함수 $f(x)$의 극댓값이 $\frac{7}{27}$일 때, $f(3)$의 값을 구하시오. [3점]

한국교육과정평가원 · 2025학년도 대학수학능력시험 수학 공통 20번
홀수형

20. 곡선 $y=\left(\frac{1}{5}\right)^{x-3}$과 직선 $y=x$가 만나는 점의 x좌표를 k라 하자. 실수 전체의 집합에서 정의된 함수 $f(x)$가 다음 조건을 만족시킨다.

> $x>k$인 모든 실수 x에 대하여
> $f(x)=\left(\frac{1}{5}\right)^{x-3}$이고 $f(f(x))=3x$이다.

$f\left(\frac{1}{k^3\times 5^{3k}}\right)$의 값을 구하시오. [4점]

한국교육과정평가원 · 2025학년도 대학수학능력시험 수학 공통 21번
홀수형

21. 함수 $f(x)=x^3+ax^2+bx+4$가 다음 조건을 만족시키도록 하는 두 정수 a, b에 대하여 $f(1)$의 최댓값을 구하시오. [4점]

> 모든 실수 α에 대하여 $\lim_{x\to\alpha}\frac{f(2x+1)}{f(x)}$의 값이 존재한다.

한국교육과정평가원 · 2025학년도 대학수학능력시험 수학 공통 22번
홀수형

22. 모든 항이 정수이고 다음 조건을 만족시키는 모든 수열 $\{a_n\}$에 대하여 $|a_1|$의 값의 합을 구하시오. [4점]

> (가) 모든 자연수 n에 대하여
> $$a_{n+1}=\begin{cases} a_n-3 & (|a_n|\text{이 홀수인 경우}) \\ \frac{1}{2}a_n & (a_n=0\text{ 또는 }|a_n|\text{이 짝수인 경우}) \end{cases}$$
> 이다.
> (나) $|a_m|=|a_{m+2}|$인 자연수 m의 최솟값은 3이다.

한국교육과정평가원 · 2025학년도 대학수학능력시험 수학 확률과 통계
23번 홀수형

23. 다항식 $(x^3+2)^5$의 전개식에서 x^6의 계수는? [2점]

① 40 ② 50 ③ 60 ④ 70 ⑤ 80

한국교육과정평가원 · 2025학년도 대학수학능력시험 수학 확률과 통계
24번 홀수형

24. 두 사건 A, B에 대하여

$$\mathrm{P}(A|B)=\mathrm{P}(A)=\frac{1}{2},\quad \mathrm{P}(A\cap B)=\frac{1}{5}$$

일 때, $\mathrm{P}(A\cup B)$의 값은? [3점]

① $\frac{1}{2}$ ② $\frac{3}{5}$ ③ $\frac{7}{10}$ ④ $\frac{4}{5}$ ⑤ $\frac{9}{10}$

한국교육과정평가원 · 2025학년도 대학수학능력시험 수학 확률과 통계
25번 홀수형

25. 정규분포 $\mathrm{N}(m, 2^2)$을 따르는 모집단에서 크기가 256인 표본을 임의추출하여 얻은 표본평균을 이용하여 구한 m에 대한 신뢰도 95%의 신뢰구간이 $a \le m \le b$이다. $b-a$의 값은? (단, Z가 표준정규분포를 따르는 확률변수일 때, $\mathrm{P}(|Z| \le 1.96)=0.95$로 계산한다.) [3점]

① 0.49 ② 0.52 ③ 0.55 ④ 0.58 ⑤ 0.61

한국교육과정평가원 · 2025학년도 대학수학능력시험 수학 확률과 통계
26번 홀수형

26. 어느 학급의 학생 16명을 대상으로 과목 A와 과목 B에 대한 선호도를 조사하였다. 이 조사에 참여한 학생은 과목 A와 과목 B 중 하나를 선택하였고, 과목 A를 선택한 학생은 9명, 과목 B를 선택한 학생은 7명이다. 이 조사에 참여한 학생 16명 중에서 임의로 3명을 선택할 때, 선택한 3명의 학생 중에서 적어도 한 명이 과목 B를 선택한 학생일 확률은? [3점]

① $\frac{3}{4}$ ② $\frac{4}{5}$ ③ $\frac{17}{20}$ ④ $\frac{9}{10}$ ⑤ $\frac{19}{20}$

한국교육과정평가원 · 2025학년도 대학수학능력시험 수학 확률과 통계
27번 홀수형

27. 숫자 1, 3, 5, 7, 9가 각각 하나씩 적혀 있는 5장의 카드가 들어 있는 주머니가 있다. 이 주머니에서 임의로 1장의 카드를 꺼내어 카드에 적혀 있는 수를 확인한 후 다시 넣는 시행을 한다. 이 시행을 3번 반복하여 확인한 세 개의 수의 평균을 $\overline{X}$라 하자. $\mathrm{V}(a\overline{X}+6)=24$일 때, 양수 a의 값은? [3점]

① 1 ② 2 ③ 3 ④ 4 ⑤ 5



한국교육과정평가원 · 2025학년도 대학수학능력시험 수학 확률과 통계
28번 홀수형

28. 집합 $X=\{1, 2, 3, 4, 5, 6\}$에 대하여 다음 조건을 만족시키는 함수 $f: X \to X$의 개수는? [4점]

(가) $f(1)\times f(6)$의 값이 6의 약수이다. (나) $2f(1) \le f(2) \le f(3) \le f(4) \le f(5) \le 2f(6)$

① 166 ② 171 ③ 176 ④ 181 ⑤ 186

한국교육과정평가원 · 2025학년도 대학수학능력시험 수학 확률과 통계
29번 홀수형

29. 정규분포 $\mathrm{N}\left(m_1,\ \sigma_1^2\right)$을 따르는 확률변수 X와 정규분포 $\mathrm{N}\left(m_2,\ \sigma_2^2\right)$을 따르는 확률변수 Y가 다음 조건을 만족시킨다.

> 모든 실수 x에 대하여
> $\mathrm{P}(X \le x) = \mathrm{P}(X \ge 40 - x)$이고
> $\mathrm{P}(Y \le x) = \mathrm{P}(X \le x + 10)$이다.

$\mathrm{P}(15 \le X \le 20) + \mathrm{P}(15 \le Y \le 20)$의 값을 오른쪽 표준정규분포표를 이용하여 구한 것이 0.4772일 때, $m_1 + \sigma_2$의 값을 구하시오. (단, σ_1과 σ_2는 양수이다.) [4점]

z	$\mathrm{P}(0 \le Z \le z)$
0.5	0.1915
1.0	0.3413
1.5	0.4332
2.0	0.4772

한국교육과정평가원 · 2025학년도 대학수학능력시험 수학 확률과 통계
30번 홀수형

30. 탁자 위에 5개의 동전이 일렬로 놓여 있다. 이 5개의 동전 중 1번째 자리와 2번째 자리의 동전은 앞면이 보이도록 놓여 있고, 나머지 자리의 3개의 동전은 뒷면이 보이도록 놓여 있다.
이 5개의 동전과 한 개의 주사위를 사용하여 다음 시행을 한다.

> 주사위를 한 번 던져 나온 눈의 수가 k일 때,
> $k \le 5$이면 k번째 자리의 동전을 한 번 뒤집어 제자리에 놓고,
> $k = 6$이면 모든 동전을 한 번씩 뒤집어 제자리에 놓는다.

위의 시행을 3번 반복한 후 이 5개의 동전이 모두 앞면이 보이도록 놓여 있을 확률은 $\dfrac{q}{p}$이다. $p + q$의 값을 구하시오. (단, p와 q는 서로소인 자연수이다.) [4점]

앞면	앞면	뒷면	뒷면	뒷면
↑	↑	↑	↑	↑
1번째 자리	2번째 자리	3번째 자리	4번째 자리	5번째 자리

한국교육과정평가원 · 2025학년도 대학수학능력시험 수학 미적분 23번
홀수형

23. $\lim_{x \to 0} \frac{3x^2}{\sin^2 x}$ 의 값은? [2점]

① 1 ② 2 ③ 3 ④ 4 ⑤ 5

한국교육과정평가원 · 2025학년도 대학수학능력시험 수학 미적분 24번
홀수형

24. $\int_0^{10} \frac{x+2}{x+1} dx$ 의 값은? [3점]

① $10+\ln 5$ ② $10+\ln 7$ ③ $10+2\ln 3$
④ $10+\ln 11$ ⑤ $10+\ln 13$

한국교육과정평가원 · 2025학년도 대학수학능력시험 수학 미적분 25번
홀수형

25. 수열 $\{a_n\}$ 에 대하여 $\lim_{n \to \infty} \frac{na_n}{n^2+3} = 1$ 일 때,
$\lim_{n \to \infty} \left(\sqrt{{a_n}^2+n} - a_n\right)$ 의 값은? [3점]

① $\frac{1}{3}$ ② $\frac{1}{2}$ ③ 1 ④ 2 ⑤ 3

한국교육과정평가원 · 2025학년도 대학수학능력시험 수학 미적분 26번
홀수형

26. 그림과 같이 곡선 $y=\sqrt{\frac{x+1}{x(x+\ln x)}}$ 과 x축 및 두 직선 $x=1$, $x=e$ 로 둘러싸인 부분을 밑면으로 하는 입체도형이 있다. 이 입체도형을 x축에 수직인 평면으로 자른 단면이 모두 정사각형일 때, 이 입체도형의 부피는? [3점]

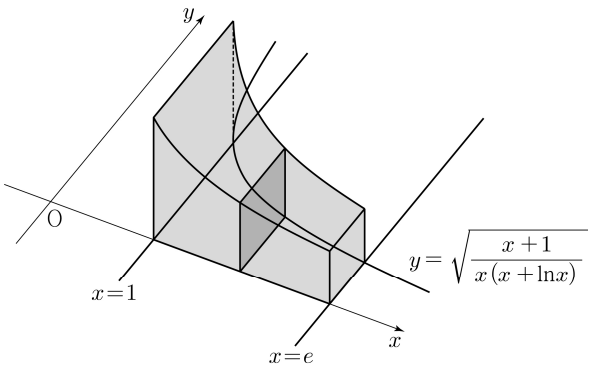

① $\ln(e+1)$ ② $\ln(e+2)$ ③ $\ln(e+3)$
④ $\ln(2e+1)$ ⑤ $\ln(2e+2)$

한국교육과정평가원 · 2025학년도 대학수학능력시험 수학 미적분 27번
홀수형

27. 최고차항의 계수가 1인 삼차함수 $f(x)$ 에 대하여 함수 $g(x)$ 를

$$g(x)=f(e^x)+e^x$$

이라 하자. 곡선 $y=g(x)$ 위의 점 $(0, g(0))$ 에서의 접선이 x축이고 함수 $g(x)$ 가 역함수 $h(x)$ 를 가질 때, $h'(8)$ 의 값은? [3점]

① $\frac{1}{36}$ ② $\frac{1}{18}$ ③ $\frac{1}{12}$ ④ $\frac{1}{9}$ ⑤ $\frac{5}{36}$

한국교육과정평가원 · 2025학년도 대학수학능력시험 수학 미적분 28번
홀수형

28. 실수 전체의 집합에서 미분가능한 함수 $f(x)$의 도함수 $f'(x)$가

$$f'(x) = -x + e^{1-x^2}$$

이다. 양수 t에 대하여 곡선 $y=f(x)$ 위의 점 $(t, f(t))$에서의 접선과 곡선 $y=f(x)$ 및 y축으로 둘러싸인 부분의 넓이를 $g(t)$라 하자. $g(1)+g'(1)$의 값은? [4점]

① $\frac{1}{2}e+\frac{1}{2}$ ② $\frac{1}{2}e+\frac{2}{3}$ ③ $\frac{1}{2}e+\frac{5}{6}$
④ $\frac{2}{3}e+\frac{1}{2}$ ⑤ $\frac{2}{3}e+\frac{2}{3}$

한국교육과정평가원 · 2025학년도 대학수학능력시험 수학 미적분 29번
홀수형

29. 등비수열 $\{a_n\}$이

$$\sum_{n=1}^{\infty}(|a_n|+a_n)=\frac{40}{3},\quad \sum_{n=1}^{\infty}(|a_n|-a_n)=\frac{20}{3}$$

을 만족시킨다. 부등식

$$\lim_{n\to\infty}\sum_{k=1}^{2n}\left((-1)^{\frac{k(k+1)}{2}}\times a_{m+k}\right)>\frac{1}{700}$$

을 만족시키는 모든 자연수 m의 값의 합을 구하시오. [4점]

한국교육과정평가원 · 2025학년도 대학수학능력시험 수학 미적분 30번
홀수형

30. 두 상수 $a\,(1\le a\le 2)$, b에 대하여 함수 $f(x)=\sin(ax+b+\sin x)$가 다음 조건을 만족시킨다.

(가) $f(0)=0$, $f(2\pi)=2\pi a+b$
(나) $f'(0)=f'(t)$인 양수 t의 최솟값은 4π이다.

함수 $f(x)$가 $x=\alpha$에서 극대인 α의 값 중 열린구간 $(0, 4\pi)$에 속하는 모든 값의 집합을 A라 하자. 집합 A의 원소의 개수를 n, 집합 A의 원소 중 가장 작은 값을 α_1이라 하면,

$n\alpha_1-ab=\frac{q}{p}\pi$이다. $p+q$의 값을 구하시오.

(단, p와 q는 서로소인 자연수이다.) [4점]

한국교육과정평가원 · 2025학년도 대학수학능력시험 수학 기하 23번
홀수형

23. 두 벡터 $\vec{a}=(k,3)$, $\vec{b}=(1,2)$에 대하여 $\vec{a}+3\vec{b}=(6,9)$일 때, k의 값은? [2점]

① 1 ② 2 ③ 3 ④ 4 ⑤ 5

한국교육과정평가원 · 2025학년도 대학수학능력시험 수학 기하 24번
홀수형

24. 꼭짓점의 좌표가 $(1,0)$이고, 준선이 $x=-1$인 포물선이 점 $(3,a)$를 지날 때, 양수 a의 값은? [3점]

① 1 ② 2 ③ 3 ④ 4 ⑤ 5

한국교육과정평가원 · 2025학년도 대학수학능력시험 수학 기하 25번
홀수형

25. 좌표공간의 두 점 $\mathrm{A}(a,b,6)$, $\mathrm{B}(-4,-2,c)$에 대하여 선분 AB를 $3:2$로 내분하는 점이 z축 위에 있고, 선분 AB를 $3:2$로 외분하는 점이 xy평면 위에 있을 때, $a+b+c$의 값은? [3점]

① 11 ② 12 ③ 13 ④ 14 ⑤ 15

한국교육과정평가원 · 2025학년도 대학수학능력시험 수학 기하 26번
홀수형

26. 자연수 $n\,(n\geq 2)$에 대하여 직선 $x=\dfrac{1}{n}$이 두 타원

$$C_1 : \frac{x^2}{2}+y^2=1,\quad C_2 : 2x^2+\frac{y^2}{2}=1$$

과 만나는 제1사분면 위의 점을 각각 P, Q라 하자. 타원 C_1 위의 점 P에서의 접선의 x절편을 α, 타원 C_2 위의 점 Q에서의 접선의 x절편을 β라 할 때, $6\leq\alpha-\beta\leq 15$가 되도록 하는 모든 n의 개수는? [3점]

① 7 ② 9 ③ 11 ④ 13 ⑤ 15

한국교육과정평가원 · 2025학년도 대학수학능력시험 수학 기하 27번
홀수형

27. 그림과 같이 $\overline{\mathrm{AB}}=6$, $\overline{\mathrm{BC}}=4\sqrt{5}$인 사면체 ABCD에 대하여 선분 BC의 중점을 M이라 하자. 삼각형 AMD가 정삼각형이고 직선 BC는 평면 AMD와 수직일 때, 삼각형 ACD에 내접하는 원의 평면 BCD 위로의 정사영의 넓이는? [3점]

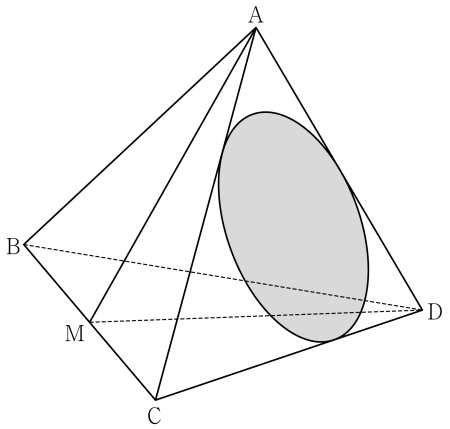

① $\dfrac{\sqrt{10}}{4}\pi$ ② $\dfrac{\sqrt{10}}{6}\pi$ ③ $\dfrac{\sqrt{10}}{8}\pi$
④ $\dfrac{\sqrt{10}}{10}\pi$ ⑤ $\dfrac{\sqrt{10}}{12}\pi$

한국교육과정평가원 · 2025학년도 대학수학능력시험 수학 기하 28번
홀수형

28. 좌표공간에 $\overline{\mathrm{AB}}=8$, $\overline{\mathrm{BC}}=6$, $\angle\mathrm{ABC}=\frac{\pi}{2}$ 인 직각삼각형 ABC와 선분 AC를 지름으로 하는 구 S가 있다. 직선 AB를 포함하고 평면 ABC에 수직인 평면이 구 S와 만나서 생기는 원을 O라 하자. 원 O 위의 점 중에서 직선 AC까지의 거리가 4인 서로 다른 두 점을 P, Q라 할 때, 선분 PQ의 길이는? [4점]

① $\sqrt{43}$ ② $\sqrt{47}$ ③ $\sqrt{51}$ ④ $\sqrt{55}$ ⑤ $\sqrt{59}$

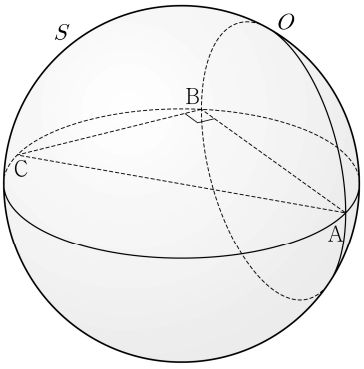

한국교육과정평가원 · 2025학년도 대학수학능력시험 수학 기하 29번
홀수형

29. 두 초점이 $\mathrm{F}(c,0)$, $\mathrm{F}'(-c,0)$ $(c>0)$인 쌍곡선 $x^2-\frac{y^2}{35}=1$이 있다. 이 쌍곡선 위에 있는 제1사분면 위의 점 P에 대하여 직선 PF′ 위에 $\overline{\mathrm{PQ}}=\overline{\mathrm{PF}}$인 점 Q를 잡자.
삼각형 QF′F와 삼각형 FF′P가 서로 닮음일 때,
삼각형 PFQ의 넓이는 $\frac{q}{p}\sqrt{5}$이다. $p+q$의 값을 구하시오.
(단, $\overline{\mathrm{PF'}}<\overline{\mathrm{QF'}}$이고, p와 q는 서로소인 자연수이다.) [4점]

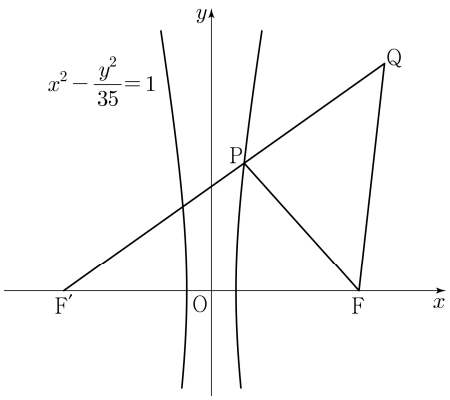

한국교육과정평가원 · 2025학년도 대학수학능력시험 수학 기하 30번
홀수형

30. 좌표평면에 한 변의 길이가 4인 정사각형 ABCD가 있다.

$$|\overrightarrow{\mathrm{XB}}+\overrightarrow{\mathrm{XC}}|=|\overrightarrow{\mathrm{XB}}-\overrightarrow{\mathrm{XC}}|$$

를 만족시키는 점 X가 나타내는 도형을 S라 하자.
도형 S 위의 점 P에 대하여

$$4\overrightarrow{\mathrm{PQ}}=\overrightarrow{\mathrm{PB}}+2\overrightarrow{\mathrm{PD}}$$

를 만족시키는 점을 Q라 할 때, $\overrightarrow{\mathrm{AC}}\cdot\overrightarrow{\mathrm{AQ}}$의 최댓값과 최솟값을 각각 M, m이라 하자. $M\times m$의 값을 구하시오. [4점]

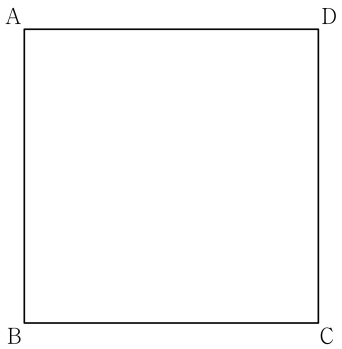

정답 · 2025학년도 대학수학능력시험 수학

공통

1번 ⑤ 2번 ④ 3번 ⑤ 4번 ② 5번 ④ 6번 ⑤

7번 ③ 8번 ① 9번 ④ 10번 ③ 11번 ② 12번 ①

13번 ⑤ 14번 ④ 15번 ② 16번 7 17번 33 18번 96

19번 41 20번 36 21번 16 22번 64

확률과 통계

23번 ⑤ 24번 ③ 25번 ① 26번 ③ 27번 ③ 28번 ②

29번 25 30번 19

미적분

23번 ③ 24번 ④ 25번 ② 26번 ① 27번 ① 28번 ②

29번 25 30번 17

기하

23번 ③ 24번 ④ 25번 ③ 26번 ① 27번 ① 28번 ④

29번 107 30번 316

수학 연습 답안지

시험명: _____ 이름: _____ 선택과목: _____

시험 한 회를 골라 사용해요. 답은 0-999 범위의 정수로 표시해요.

1	①	②	③	④	⑤
2	①	②	③	④	⑤
3	①	②	③	④	⑤
4	①	②	③	④	⑤
5	①	②	③	④	⑤
6	①	②	③	④	⑤
7	①	②	③	④	⑤
8	①	②	③	④	⑤
9	①	②	③	④	⑤
10	①	②	③	④	⑤
11	①	②	③	④	⑤
12	①	②	③	④	⑤
13	①	②	③	④	⑤
14	①	②	③	④	⑤
15	①	②	③	④	⑤
23	①	②	③	④	⑤
24	①	②	③	④	⑤
25	①	②	③	④	⑤
26	①	②	③	④	⑤
27	①	②	③	④	⑤
28	①	②	③	④	⑤

16번

백	십	일
☐	☐	☐
⓪	⓪	⓪
①	①	①
②	②	②
③	③	③
④	④	④
⑤	⑤	⑤
⑥	⑥	⑥
⑦	⑦	⑦
⑧	⑧	⑧
⑨	⑨	⑨

17번

백	십	일
☐	☐	☐
⓪	⓪	⓪
①	①	①
②	②	②
③	③	③
④	④	④
⑤	⑤	⑤
⑥	⑥	⑥
⑦	⑦	⑦
⑧	⑧	⑧
⑨	⑨	⑨

18번

백	십	일
☐	☐	☐
⓪	⓪	⓪
①	①	①
②	②	②
③	③	③
④	④	④
⑤	⑤	⑤
⑥	⑥	⑥
⑦	⑦	⑦
⑧	⑧	⑧
⑨	⑨	⑨

19번

백	십	일
☐	☐	☐
⓪	⓪	⓪
①	①	①
②	②	②
③	③	③
④	④	④
⑤	⑤	⑤
⑥	⑥	⑥
⑦	⑦	⑦
⑧	⑧	⑧
⑨	⑨	⑨

20번

백	십	일
☐	☐	☐
⓪	⓪	⓪
①	①	①
②	②	②
③	③	③
④	④	④
⑤	⑤	⑤
⑥	⑥	⑥
⑦	⑦	⑦
⑧	⑧	⑧
⑨	⑨	⑨

21번

백	십	일
☐	☐	☐
⓪	⓪	⓪
①	①	①
②	②	②
③	③	③
④	④	④
⑤	⑤	⑤
⑥	⑥	⑥
⑦	⑦	⑦
⑧	⑧	⑧
⑨	⑨	⑨

22번

백	십	일
☐	☐	☐
⓪	⓪	⓪
①	①	①
②	②	②
③	③	③
④	④	④
⑤	⑤	⑤
⑥	⑥	⑥
⑦	⑦	⑦
⑧	⑧	⑧
⑨	⑨	⑨

29번

백	십	일
☐	☐	☐
⓪	⓪	⓪
①	①	①
②	②	②
③	③	③
④	④	④
⑤	⑤	⑤
⑥	⑥	⑥
⑦	⑦	⑦
⑧	⑧	⑧
⑨	⑨	⑨

30번

백	십	일
☐	☐	☐
⓪	⓪	⓪
①	①	①
②	②	②
③	③	③
④	④	④
⑤	⑤	⑤
⑥	⑥	⑥
⑦	⑦	⑦
⑧	⑧	⑧
⑨	⑨	⑨